Základná škola, Trebišovská 10, Košice

vyhlasuje **10 x 50** bodovú súťaž

GEO v malíčku

3. kolo – otázky:

1. Tak ako vždy, začiatok bude patriť Košiciam

a) Poznáme ulice a odkiaľ je ich názov, do ktorej mestskej časti a do ktorého okresu patria? Celá úloha je za 4 body Miniotázka: Naša ZŠ leží na Trebišovskej ulici- názov ulice je odvodený od? Správne – mesta na východnom Slovensku, Trebišova. Do ktorej mestskej časti patríme? Správne – Západ. A do okresu? Košice II. Takže toto budem v tejto otázke od vás chcieť.

Táák a ideme na to! Tu sú ulice: Bauerova , Garbiarska, Buzulucká, Podjavorinskej

b) **kde v Košiciach nájdeme tak nádhernú strechu? 1 bod**

c) **Ako sa volá táto budova? 1 bod Kde v Košiciach sa nachádza? 1 bod**

d) Boli Košice počas II. Svetovej vojny bombardované? 1 bod Kedy a kto oslobodil Košice od fašizmu? 1 bod

Kto po oslobodení Košíc sídlil určitú dobu v budove z úlohy c) ? 1 bod

2. Všetci vieme, že rozlohou najväčší štát je Rusko**.**

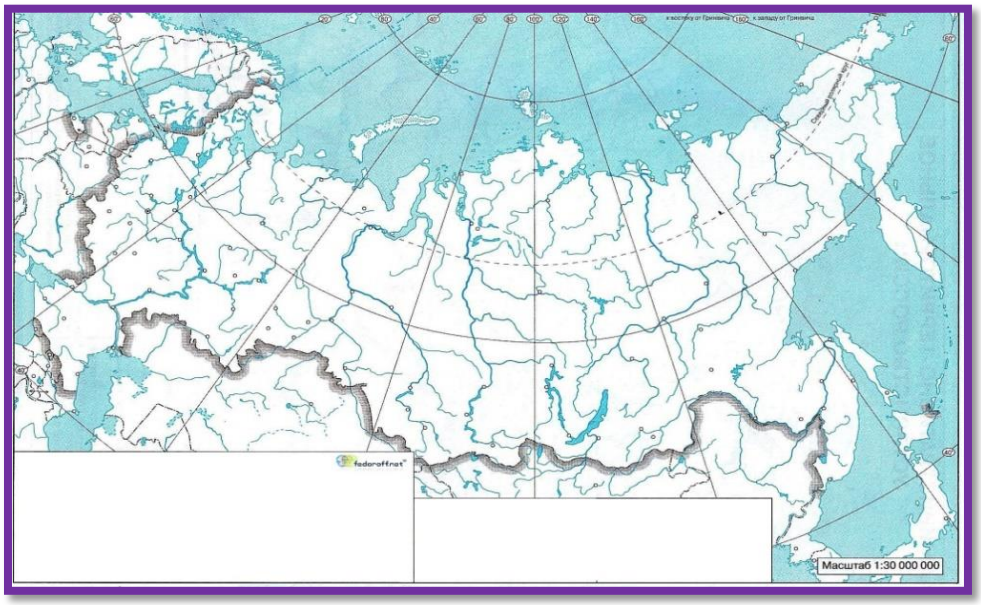

a) Na ktorom kontinente sa nachádza? 1bod

b) Leží aj pri moriach. Ktorých? Pozor: za všetky dostaneš iba 3 body, ale za každé chýbajúce more alebo chybne napísané sa ti bod odráta! 11 morí:

c) Koľko časových pásiem sa nachádza na jeho území? 1bod

d) Hraničí so 16 krajinami, 14 z nich sú na súši. Sú to: Čína, Nórsko, Mongolsko, Estónsko, Lotyšsko, Poľsko, Japonsko, Bielorusko, Ukrajina, Gruzínsko, Fínsko, Azerbajdžan, Kórejská ľudovodemokratická republika, Litva, Spojené štáty americké. **Na ktorý štát som zabudla? 1 bod Leží ten štát, ktorý som zabudla , aj v Európe? 1 bod**

e) Na ktorom ruskom polostrove je najviac sopiek? 1 bod Ktorému zvieraťu sa tu dobre darí, lebo je tu málo trvalo žijúcich ľudí? (Pomôcka: približne 4 kusy na sto štvorcových kilometrov) 1 bod

f) Druhé najväčšie mesto má vraj 3x viac mostov ako Benátky! Ktoré mesto a koľko približne mostov majú Benátky? 1 bod

3. Blížia sa prázdniny, tak si dáme zopár reálnych typov, kde a ako ich môžeme na Slovensku stráviť.

a) Najprv navštívime jaskyňu, ktorá je celoročne otvorená okrem pondelkov a Vianočných sviatkov**.** Zaraďuje sa medzi jaskyne svetového významu, patrí medzi prírodné pamiatky

UNESCO. Objavil ju Ján Majko v roku 1926. Je najväčšia a najdlhšia v Slovenskom krase.

Foto možno napovie: **Ako sa volá táto jaskyňa? 1 bod V ktorom okrese sa nachádza? 1 bod Má podzemnú riečku Styx, po ktorej sa dá plaviť? 1 bod Je jaskyňa významnou archeologickou lokalitou.? 1 bod**

b) Možno bude cez prázdniny snežiť a naskytne sa vám takýto pohľad na Dražovský kostolík:

Prečo sa oplatí vidieť kostolík svätého Michala Archanjela v Dražovciach? 1 bod

c) Kde si takéto krásne krojované bábiky z rôznych regiónov západného Slovenska môžete pozrieť od 8. novembra 2019 do 31. januára 2020? 1 bod Nachádza sa v blízkosti skanzen v Zuberci? 1bod Bude počas zimných prázdnin

fungovať historická lesná úvraťová železnica? 1 bod

d) Asi ťažko pôjde človek do Polonín hľadať živé zubry - je to plaché, ale aj nebezpečné zviera. Preto vám ho odporúčam pozrieť si ho za ohradou v zubrej zvernici. **Kde sa na Slovensku zubry chovajú umelo? 1 bod**

e) Tento vodopád nehľadajte v lese. Leží uprostred dediny a vytvorila ho riečka Teplianka s prítokmi. Nachádza sa v dedinke Lúčky. **V ktorých okresných mestách sú dediny menom Lúčky? 1bod A na ktorú dedinu, v ktorom okresnom meste sa hodí tento popis a foto? 1bod**

4. Blížia sa nám nádherné vianočné sviatky. Určite sa na ne tešíte. A ako sa oslavujú Vianoce vo svete?

a) Možno budete pomáhať rodičom zdobiť stromček sklenenými vianočnými ozdobami vyrobenými na Slovensku. **Kde sa na Slovensku celoročne vyrábajú vianočné gule? 1bod**

Ako sa tento závod volá? 1bod Vyrábajú aj sklenené veľkonočné ozdoby? 1bod

A späť k Vianociam - možno stromček prizdobíte sladkými vianočnými kolekciami**.**

Kde sa na Slovensku tieto čokoládové kolekcie vyrábajú? 1bod

b) Možno vám donesie darčeky Ježíško, možno niekto iný.

Kde rozdáva darčeky Joulupukki alebo veľký Ukko a to za výdatnej pomoci piadimužíkov, ktorí vraj odnášajú neposlušné deti do svojho zimného kráľovstva? 1bod

c) Kto a kedy nosí darčeky deťom v Rusku? 1bod

d) V Amerike deti veria, že darčeky im nosí Santa Klaus.

Kde ale Santa býva počas roka? 1 bod Leží toto mesto za južnou polárnou kružnicou? 1bod

f) Kde vo svete sa nachádza a ktorému štátu patrí Vianočný ostrov? 1bod.

Čo tvorí 65% jeho rozlohy? 1 bod

5. Spoznáte, čo sa za obrázkom alebo mapou skrýva?

a) Ktorý vnútrozemský európsky štát má takýto obrys? 1 bod

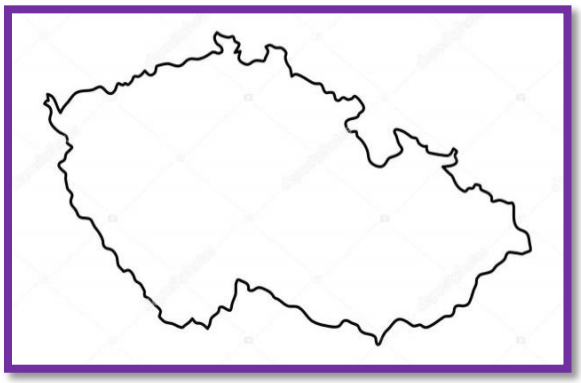

Ktorá rieka vzniká sútokom riek: Mže, Úhlava, Úslava a Radbuza? 1 bod Do ktorej rieky sa vlieva a do ktorého úmoria patrí? 1 bod Ktorá slovenská rieka tiež vzniká sútokom 5 riek? 1 bod

b) Komu patrí táto vlajka? 1 bod Nachádza sa tento štát na kontinente Amerika? 1 bod

c) Ktoré slovenské mestá majú tieto erby? 1 bod



Má mesto Lučenec v erbe pelikána? 1 bod

d) Kde sa nachádza najvyšší vrch Mount Elbert? 1bod bude, ak úplne na všetko správne zodpoviete: pohorie, štáty, svetadiel, kontinent

e) Prečo gepardy vymierajú? 1bod

Tak, to je tretia bodová päťdesiatka!

Ak nevynecháte žiadnu časť úlohy, môžete získať spolu až 50 bodov.

Kto chce byť lepší, vyrieši všetko rýchlo a získa bonus!

Termíny:

Do 1. decembra 2019 + 10 bodov

Do 5. decembra 2019 + 5 bodov

Posledný termín: 18. december 2019

KOMU?

Osobne p. učiteľke Majorošovej alebo poslať riešenie: alena17maj@gmail.com

A pozor!! Odoslaný mail bez mena a triedy bude neplatný!!!